	UNIVERSIDADES PÚBLICAS DE LA COMUNIDAD DE MADRID EVALUACIÓN PARA EL ACCESO A LAS ENSEÑANZAS UNIVERSITARIAS OFICIALES DE GRADO Curso **2021-2022** **MATERIA: GEOGRAFÍA**	**MODELO Orientativo**

INSTRUCCIONES GENERALES Y CALIFICACIÓN

Después de leer atentamente el examen, responda a cuatro preguntas cualesquiera a elegir entre las ocho que se proponen.

TIEMPO Y CALIFICACIÓN: 90 minutos. Cada pregunta se calificará sobre 2,5 puntos.

A.1. (2,5 puntos**). Tema: "El aprovechamiento hídrico en España".**

Desarrolle, de manera sintética, el tema propuesto atendiendo a los siguientes apartados (utilice, como máximo, una cara de un folio):

1. Usos y aprovechamientos más importantes.
2. La planificación hidrológica

A.2. (2,5 puntos)**:** Defina con precisión **cinco** de los ocho **conceptos** siguientes (escriba, como máximo, una cara de un folio):

Municipio; censo, curva de nivel; tasa bruta de mortalidad; norte geográfico; ONU; envejecimiento de la población.

A.3. (2,5 puntos)**:** Comente el siguiente gráfico y cuadro, **"porcentajes de superficie forestal arbolada en España según el tipo de bosques",** (2018) explique las razones de estas diferencias de valores.

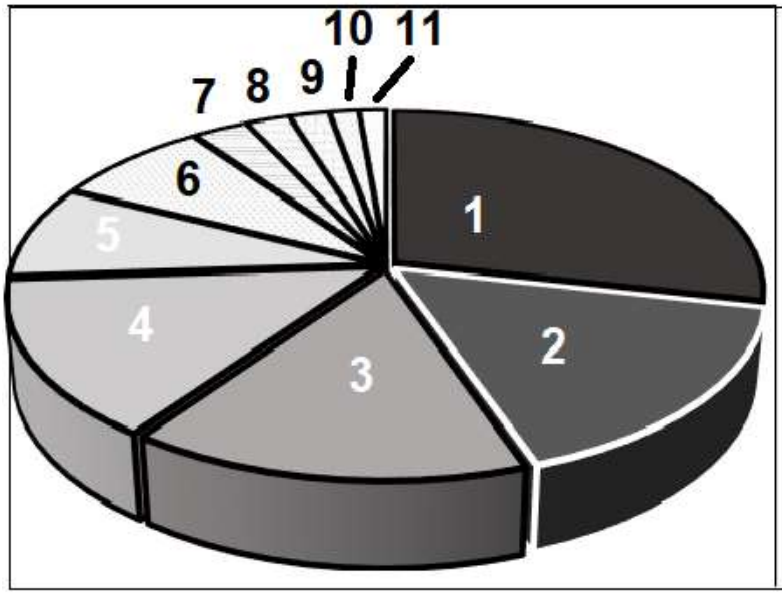

% de la superficie forestal arbolada en España.		
1	Pinares	28,4
2	Mixtas de coníferas y frondosas	16,3
3	Dehesas	15,08
4	Encinares	14,2
5	Robledales,rebollares,quejigales	8,3
6	Repoblaciones de crecimiento rápido	7,91
7	Otras	2,8
8	Hayedos	2,2
9	Enebrales y sabiares	2
10	Alcornocales	1,47
11	Bosque ribereño	1,36

Fuente: MAPA, 2018

A.4. (2,5 puntos): A la vista del mapa adjunto **"la España caliza",** describa las unidades del relieve que la integran y señale el nombre de las provincias numeradas.

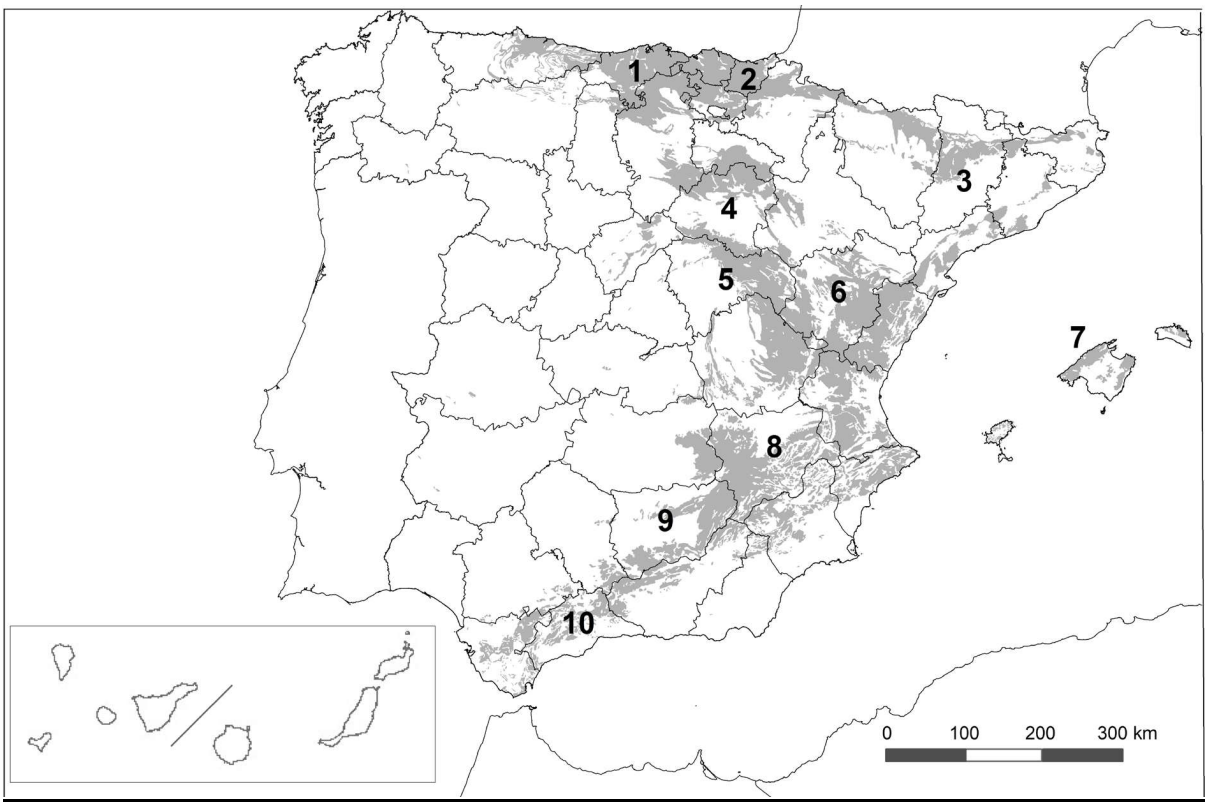

B.1. (2,5 puntos). **Tema:" El sistema urbano español."**

Desarrolle, de manera sintética, el tema propuesto atendiendo a los siguientes apartados (utilice, como máximo, una cara de un folio):

1. La jerarquía de las ciudades en España.
2. La red urbana española.

B.2. (2,5 puntos): Defina con precisión **cinco** de los ocho **conceptos** siguientes (escriba, como máximo, una cara de un folio):

Desertificación; barbecho; lluvia ácida; exportación; Tratado de Roma; sector secundario; acuífero; solana.

B.3. (2,5 puntos): Comente la **fotografía adjunta** atendiendo, si procediese, al siguiente orden:

1. Elementos del medio físico.
2. Elementos del medio humano.
3. La relación entre ellos.
4. Indique el tipo de paisaje geográfico que muestra la fotografía.

B.4. (2,5 puntos)**:** A la vista del mapa adjunto, **"provincias con mayor porcentaje de municipios de menos de 100 habitantes**", indique el nombre de las provincias. Señale las razones que explican esta distribución y argumente algunas consecuencias sociales y económicas que puedan derivarse.

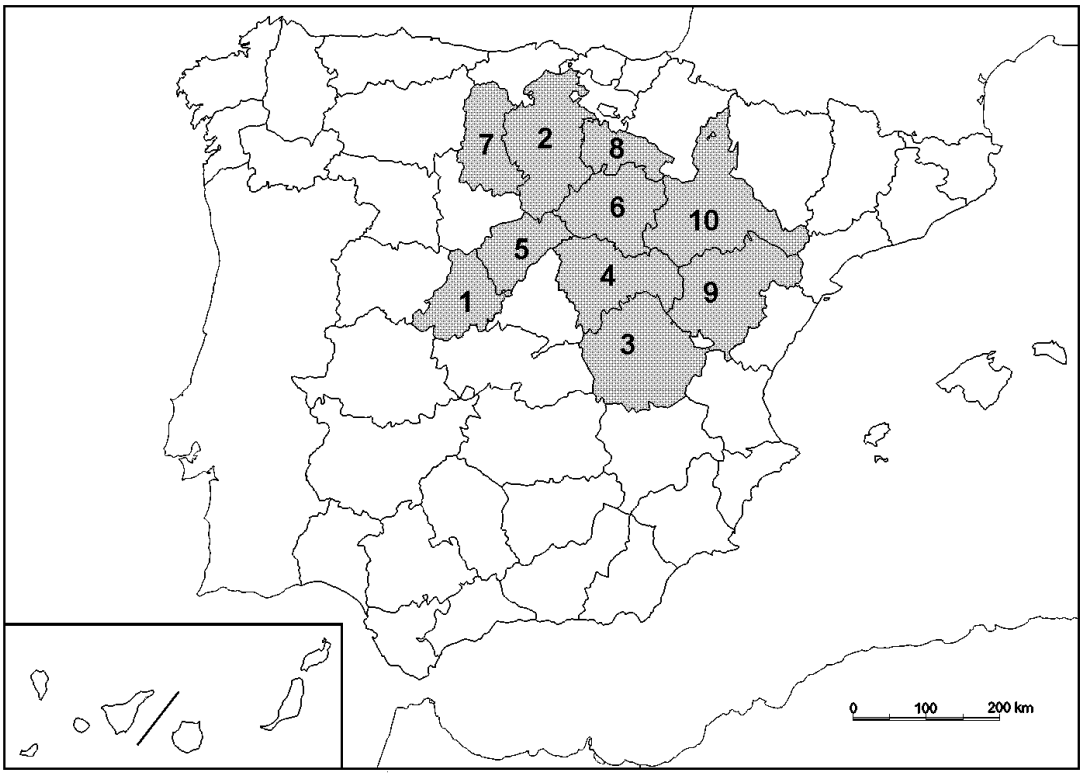

Vélez de Benaudalla (Granada)