	UNIVERSIDADES PÚBLICAS DE LA COMUNIDAD DE MADRID EVALUACIÓN PARA EL ACCESO A LAS ENSEÑANZAS UNIVERSITARIAS OFICIALES DE GRADO Curso **2021-22** **MATERIA: FÍSICA**	**MODELO Orientativo**

INSTRUCCIONES Y CRITERIOS GENERALES DE CALIFICACIÓN

Después de leer atentamente el examen, responda a cinco preguntas cualesquiera a elegir entre las diez que se proponen.

CALIFICACIÓN: Cada pregunta se valorará sobre 2 puntos (1 punto cada apartado).

TIEMPO: 90 minutos.

Pregunta A.1.- La distancia de la Tierra al Sol varía a lo largo de su órbita entre $1{,}52\cdot10^{11}$ m en su punto más alejado (afelio) y $1{,}47\cdot10^{11}$ m en el punto más próximo (perihelio).

a) Calcule el trabajo realizado por el campo gravitatorio del Sol sobre la Tierra en el tránsito del afelio al perihelio.

b) Si la energía mecánica de la Tierra en su órbita vale $-2{,}65\cdot10^{33}$ J, ¿cuál es la velocidad máxima que alcanza la Tierra en ella?

Datos: Constante de Gravitación Universal, $G = 6{,}67\cdot10^{-11}$ N m^2 kg^{-2}; *Masa de la Tierra,* $M_T = 5{,}97\cdot10^{24}$ kg; *Masa del Sol,* $M_S = 1{,}99\cdot10^{30}$ kg.

Pregunta A.2.- La expresión matemática de una onda transversal que se propaga en el sentido positivo del eje *x*, con una velocidad de propagación de 4/3 m s^{-1}, es: $y(x,t) = A\cos(\omega t - kx + \phi)$. Se sabe que en el instante *t* = 1 s el punto situado en *x* = 1 m tiene una aceleración de $-32\pi^2$ cm s^{-2} y un desplazamiento de +2 cm a lo largo de la dirección *y*. Si en el instante *t* = 0 s, el punto situado en *x* = 0 tiene el desplazamiento máximo de valor -2 cm, determine:

a) La frecuencia angular y el número de onda.

b) La amplitud y la fase inicial de la onda ϕ.

Pregunta A.3.- Dos hilos indefinidos, paralelos al eje *z*, están recorridos por una intensidad de corriente *I* = 2 A en los sentidos indicados en la figura. Uno de los hilos (hilo 1) corta al plano *xy* en el punto (0, *a*) y el otro (hilo 2) en el punto (2*a*, 0), siendo *a* = 20 cm. Calcule:

a) El campo magnético creado por ambos hilos en el origen de coordenadas, O(0, 0).

b) La fuerza magnética por unidad de longitud que ejerce el hilo 1 sobre el hilo 2.

Dato: Permeabilidad magnética del vacío, $\mu_0 = 4\,\pi\cdot10^{-7}$ T m A^{-1}.

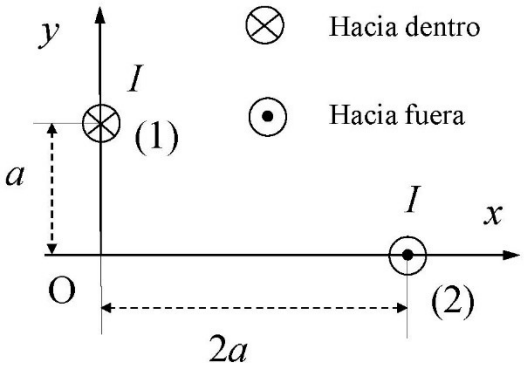

Pregunta A.4.- Se sitúa un objeto a la izquierda de una lente convergente, colocado verticalmente sobre el eje óptico. Determine el aumento lateral de la imagen y realice el correspondiente trazado de rayos para la formación de la imagen, si el objeto se sitúa a:

a) Una distancia de un tercio de la distancia focal de la lente.

b) Una distancia de tres veces la distancia focal de la lente.

Pregunta A.5.- Al iluminar la superficie de un metal con un haz de luz de 120 nm de longitud de onda se emiten electrones por efecto fotoeléctrico que son frenados por un potencial de 7,2 V. Cuando el mismo metal se ilumina con un haz de luz de frecuencia $1{,}67\cdot10^{15}$ Hz, el potencial de frenado se reduce hasta los 3,8 V.

a) Determine el valor de la constante de Planck.

b) Halle el trabajo de extracción del metal, en eV, y el valor de su frecuencia umbral para que se produzca efecto fotoeléctrico.

Datos: Velocidad de la luz en el vacío, $c = 3\cdot10^8$ m s^{-1}; *Valor absoluto de la carga del electrón,* $e = 1{,}6\cdot10^{-19}$ C.

Pregunta B.1.- En un experimento similar al efectuado por Henry Cavendish en 1798 para determinar la constante de gravitación universal, una pequeña esfera, A, de masa *m* queda situada ante dos esferas, B y C, ambas de la misma masa *M,* de tal modo que los centros de las tres esferas corresponden a los vértices de un triángulo rectángulo de catetos *D* y *d,* como se ilustra en la figura.

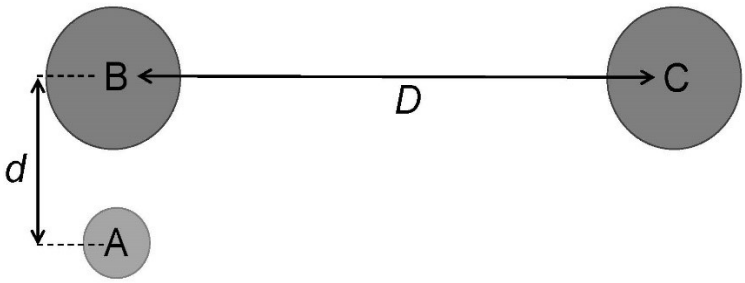

a) ¿Qué relación debe existir entre *D* y *d* para que la fuerza de atracción gravitatoria de la esfera C sobre la esfera A sea la décima parte de la atracción de la esfera B sobre A?
b) Si el valor de *M* es de 10 kg y se encuentra que la atracción de B sobre A es la milmillonésima parte del peso de A en la superficie terrestre, ¿cuánto vale la distancia *d*?

Datos: Masa de la Tierra, $M_T = 5{,}97\cdot10^{24}$ kg*; Radio de la Tierra,* $R_T = 6{,}37\cdot10^{6}$ m.

Pregunta B.2.- En el centro de una pista de circo circular se ha instalado un sonómetro (instrumento para medir el nivel de intensidad sonora). Solamente una de las filas, de forma circular alrededor de la pista y de centro el centro de la misma, está ocupada por el público asistente al espectáculo. Un faquir está actuando a 5 m del centro de la pista. En un cierto instante, el faquir emite un grito y el sonómetro marca 80 dB. A continuación, una persona del público grita y el sonómetro marca 73,98 dB. Por último, todo el público grita al unísono, marcando el sonómetro 90,97 dB. Si se asume que todos, tanto el faquir como cada espectador, gritan con la misma potencia, calcule:

a) La potencia del grito emitido por el faquir.
b) La distancia a la que se encuentra el público del centro de la pista y el número de personas que asisten al espectáculo.

Dato: Valor umbral de la intensidad acústica, $I_0 = 10^{-12}$ W m^{-2}.

Pregunta B.3.- Una espira cuadrada, de lado *a* = 30 cm, penetra con una velocidad constante $\vec{v} = 3\,\vec{i}$ cm s^{-1}, en una zona (x > 0) en la que hay un campo magnético $\vec{B} = 1\cdot10^{-3}\,\vec{k}$ T. En el instante inicial, la espira está completamente fuera del campo y con uno de sus lados situado en el eje *y* (ver figura).

a) Represente gráficamente la fem inducida en la espira en función del tiempo.
b) Si la resistencia de la espira es de 10 Ω, obtenga el valor máximo de la intensidad que recorre la espira. Razone cuál será el sentido de la corriente inducida.

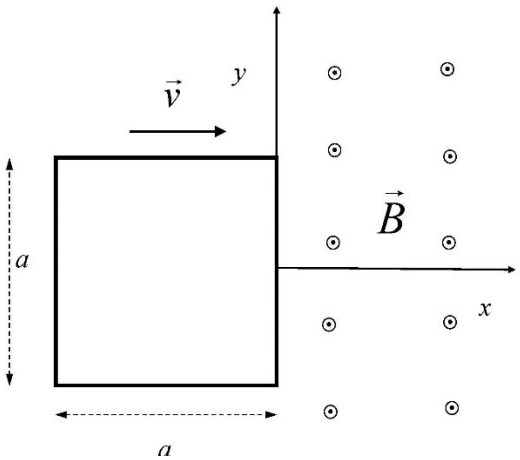

Pregunta B.4.- Un haz de luz compuesto por dos rayos monocromáticos incide desde el aire con un ángulo de incidencia de 40º sobre la superficie superior de un vidrio de 20 cm de espesor. El índice de refracción del vidrio para la primera onda es n_1 = 1,61, mientras que para la segunda onda es n_2 = 1,67.

a) Calcule la distancia entre los dos rayos a la salida del vidrio por su cara inferior.
b) Si la frecuencia de la luz del primer rayo es $4{,}21\cdot10^{14}$ Hz, obtenga su longitud de onda en el interior del vidrio.

Datos: Índice de refracción del aire, $n_{aire} = 1$*; Velocidad de la luz en el vacío,* $c = 3\cdot10^{8}$ m s^{-1}.

Pregunta B.5.- Un trozo de madera con 25 g de carbono procedente de la rama de un árbol fue tallado para fabricar la empuñadura de un cuchillo de sílex. Esta empuñadura se encontró posteriormente en las ruinas de una ciudad antigua mostrando una actividad en ^{14}C de 5,2 Bq. Sabiendo que, en los organismos vivos, hay $1{,}3\cdot10^{-12}$ átomos de ^{14}C por cada átomo de ^{12}C y que el periodo de semidesintegración del ^{14}C es de 5730 años:

a) Determine la actividad que tenía el trozo de madera cuando la rama fue cortada.
b) Calcule hace cuanto tiempo fue cortada la rama.

Dato: Masa atómica del C, $M_C = 12$ u*; Número de Avogadro,* $N_A = 6{,}02\cdot10^{23}$ mol^{-1}.