	UNIVERSIDADES PÚBLICAS DE LA COMUNIDAD DE MADRID PRUEBA DE ACCESO A LAS ENSEÑANZAS UNIVERSITARIAS OFICIALES DE GRADO Curso **2012-2013** **MATERIA: GEOGRAFÍA**	**MODELO**

INSTRUCCIONES Y CRITERIOS GENERALES DE CALIFICACIÓN

Dispone de dos opciones para contestar (**A** y **B**). **Debe escoger exclusivamente una de ellas.**

La puntuación total será en ambas opciones de **10 puntos**, correspondiendo a la primera parte **1,5 puntos**, a la segunda **4 puntos**, a la tercera **2,5 puntos** y **2 puntos** a la cuarta.

TIEMPO. **Duración de la prueba:** "1 hora y 30 minutos".

OPCIÓN A

1ª Parte

Defina, en el cuadernillo adjunto, **seis** de los siguientes términos o conceptos geográficos, utilizando como máximo una cara del cuadernillo:

Fosa tectónica, Anticlinal, Estuario, Dehesa, Presión atmosférica, I+D+i, Bosque caducifolio, Turismo rural.

Puntuación máxima: 1,5 puntos.

2ª Parte

Tema: ***"La industria en España"*.**

Desarrolle, de manera sintética, el tema propuesto (utilice, como máximo, ambas caras de un folio). Como indicativos se señalan los siguientes epígrafes:

- Las etapas del desarrollo industrial.
- La reestructuración de la industria española.
- Implicaciones territoriales de la reconversión industrial.
- Innovación tecnológica y la "transnacionalización" industrial.

Puntuación máxima: 4 puntos.

3ª Parte

Comentario de la fotografía adjunta:

Comente el paisaje de la lámina adjunta, atendiendo, al menos, a:

a) Unidades del paisaje. Haga especial hincapié en las transformaciones recientes del mismo.
b) Los usos del suelo.
c) Manifestaciones espaciales de las actividades económicas y del poblamiento.

.

Puntuación máxima: 2,5 puntos.

4ª Parte

A la vista del mapa adjunto, que recoge las ***Provincias con tasa de paro superior al 19% (2009)***, indique el nombre de las mismas; señale las razonas que explican esta distribución y comente algunas consecuencias que se puedan derivar de este hecho.

Puntuación máxima: 2 puntos.

Provincias con tasa de paro superior al 19% (2009)

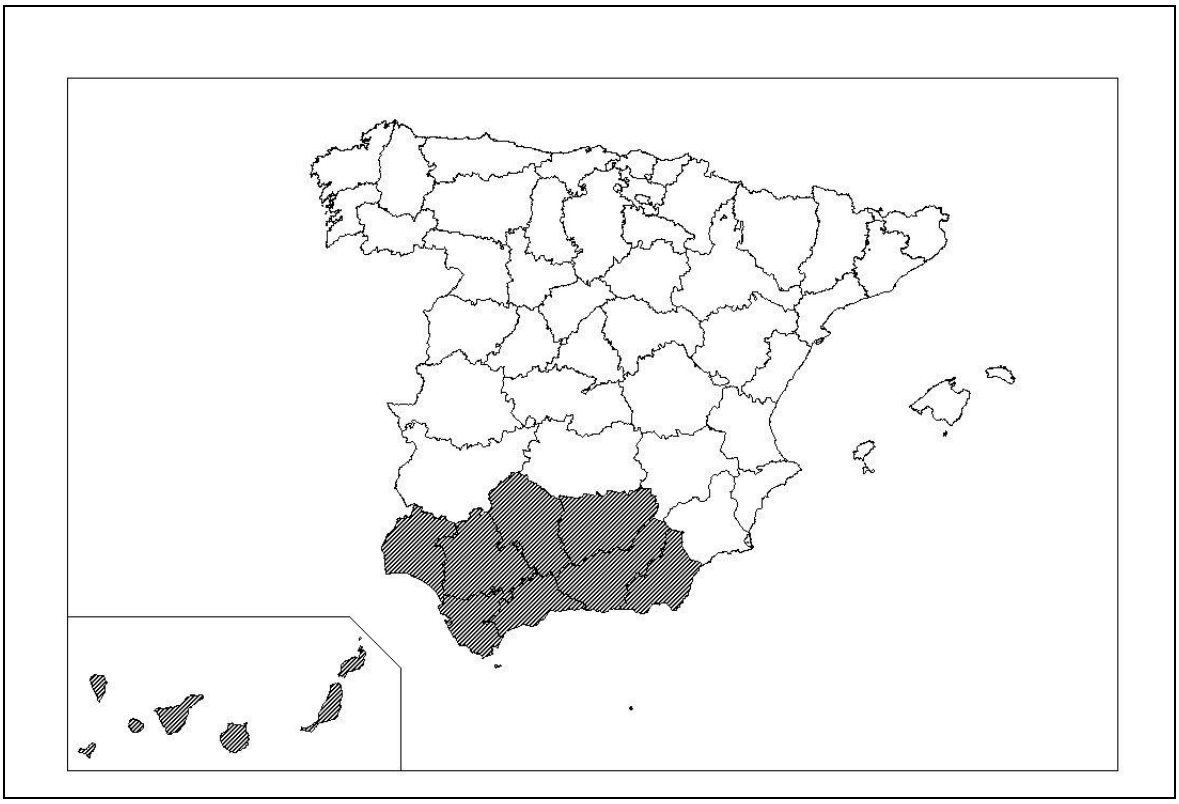

FUENTE: INE (2011)

OPCIÓN B

1ª Parte

Defina, en el cuadernillo adjunto, **seis** de los siguientes términos o conceptos geográficos, utilizando como máximo una cara del cuadernillo:

Isoyeta, Escala, Tiempo atmosférico, Policultivo, Consejo Europeo, Concentración parcelaria, Tasa de mortalidad, Pesca de altura.

Puntuación máxima: 1,5 puntos.

2ª Parte

Tema: ***"La población española".***
Desarrolle, de manera sintética, el tema propuesto (utilice, como máximo, ambas caras de un folio). Como indicativos se señalan los siguientes epígrafes:

- Evolución demográfica.
- Estructura y distribución espacial.
- Movimientos naturales y migratorios.
- La futura evolución demográfica de España.

Puntuación máxima: 4 puntos.

3ª Parte

Comentario del gráfico: Realice un comentario del gráfico adjunto: "***Producción de energía eléctrica en España a partir de fuentes primarias, 2009***", atendiendo al menos a:

- Descripción y análisis de las distribución de fuentes primarias.
- Causas y consecuencias de esa distribución.

Puntuación máxima: 2,5 puntos.

Producción de energía eléctrica en España a partir de fuentes primarias, 2009

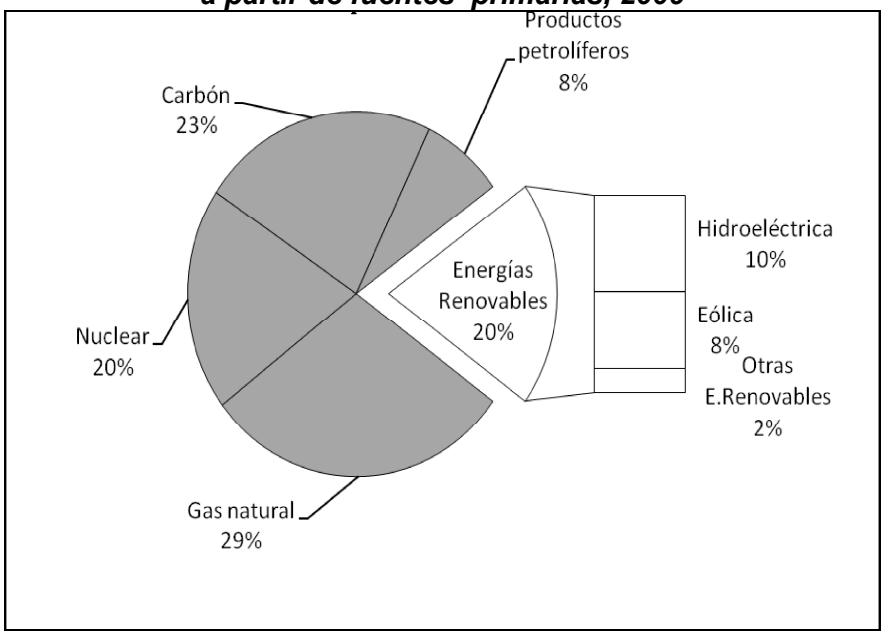

FUENTE: Red Eléctrica Española (2011).

4ª Parte

A la vista del mapa adjunto de los ***"Principales ríos de la Península Ibérica"***, indique el nombre de los ríos cuyas desembocaduras están numeradas del 1 al 10 y señale algunas diferencias entre una y otra vertiente.

Puntuación máxima: 2 puntos.

Principales ríos de la Península Ibérica

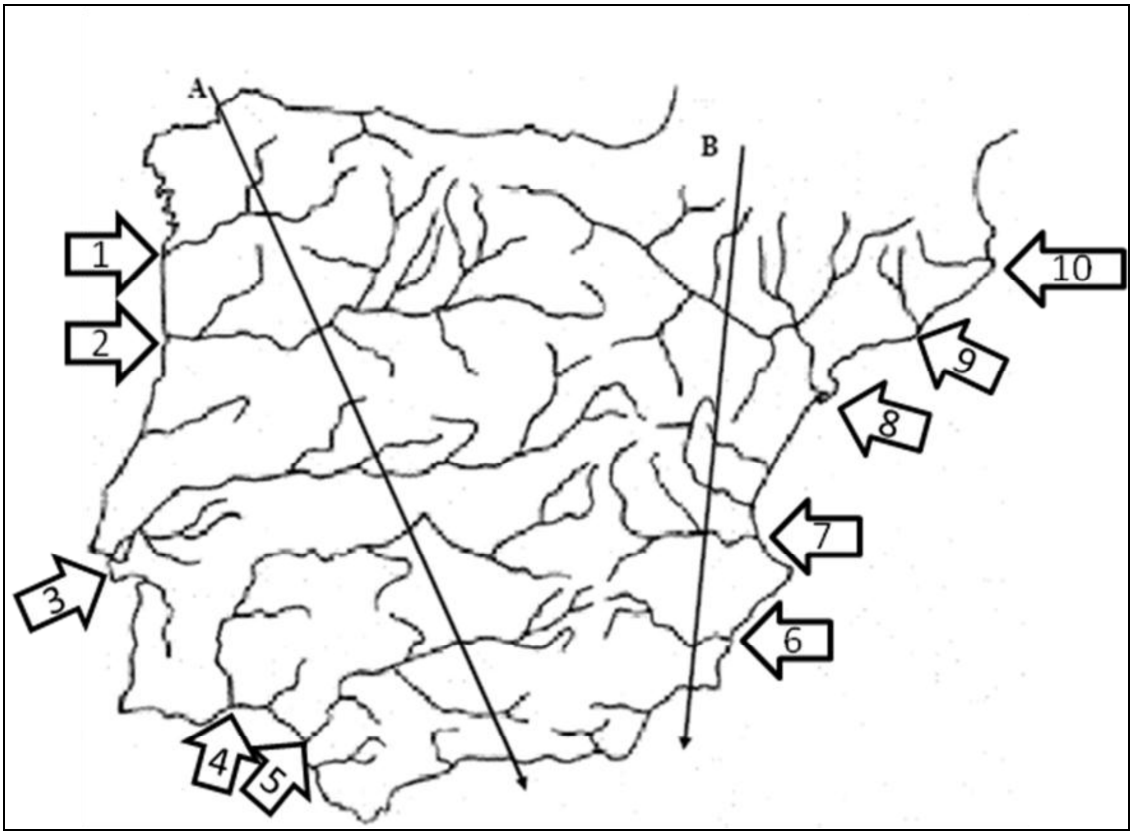

GEOGRAFÍA

CRITERIOS ESPECÍFICOS DE CORRECCIÓN Y CALIFICACIÓN

A) CRITERIO GENERAL:

La puntuación total será, en ambas pruebas, de **10 puntos**, correspondiendo a la primera parte **1´5 puntos;** a la segunda, **4 puntos**; a la tercera, **2´5 puntos**, y a la cuarta, **2 puntos**. La estructura y los criterios de corrección serán los siguientes, tanto para la **Opción A** como para la **Opción B**.

B) CRITERIOS CONCRETOS:

1ª. Primera parte: ***1,5 puntos*** (cada término o concepto: ***0´25 puntos***).

Definición de una serie de *términos geográficos y conceptos*. Las respuestas deberán valorarse con un criterio amplio, ya que son numerosas las posibilidades expresivas correctas. En todo caso, se atenderá a la precisión geográfica en la caracterización del término o concepto, y a la claridad conceptual.

2ª. Primera parte: ***4 puntos***

Trata del "*desarrollo de un tema*", valorando fundamentalmente la ordenación, la estructuración, la coherencia expositivo-argumentativa; la claridad, la precisión y la organización sintética de los conocimientos, junto con la correcta localización, la comprensión y caracterización de los fenómenos geográficos que se suman al grado y profundidad de los conocimientos.

3ª. Primera parte: ***2,5 puntos***

Propone "*el comentario de un documento geográfico"*.

* *Opción A: "Comentario de una lámina"*. Se valorará positivamente la existencia de una metodología de comentario de fotografías. **Ría de Pontevedra.**

* *Opción B: "Comentario de un instrumento gráfico".* Se valorará la capacidad de extraer información, analizar los datos y caracterizar la situación, en una relación causa-efecto. "***Producción de energía eléctrica en España a partir de fuentes primarias, 2009***".

4ª. Primera parte: ***2 puntos***

Presenta unos *mapas* cuyo comentario tiene una puntuación máxima de **2 puntos;** en ellos debe atenderse a la correcta localización y caracterización de los elementos solicitados.

Opción A: **Jaén, Córdoba, Sevilla, Huelva, Cádiz, Málaga, Granada, Almería, Santa Cruz de Tenerife y Las Palmas de Gran Canaria.**

Opción B:: **1 Miño, 2 Duero, 3 Tajo, 4 Guadiana, 5 Guadalquivir, 6 Segura, 7 Júcar, 8 Ebro, 9 Llobregat, 10 Ter.**

En las cuatro partes de que consta la prueba, se considerarán elementos de ponderación; v.gr.: la calidad de la redacción, la corrección expositivo-argumentativa, la gramatical y la ortográfica.