	UNIVERSIDADES PÚBLICAS DE LA COMUNIDAD DE MADRID PRUEBA DE ACCESO A LAS ENSEÑANZAS UNIVERSITARIAS OFICIALES DE GRADO Curso **2010-2011** **MATERIA: GEOGRAFÍA**	MODELO

INSTRUCCIONES Y CRITERIOS GENERALES DE CALIFICACIÓN

Dispone de dos opciones para contestar (A y B). **Debe escoger exclusivamente una de ellas**. La puntuación total será, en ambas pruebas, de **10 puntos**, correspondiendo a la primera parte **1´5 puntos;** a la segunda, **4 puntos**; a la tercera, **2´5 puntos**, y a la cuarta, **2 puntos**.

TIEMPO: Una hora y treinta minutos

OPCIÓN A

1ª Parte

Defina, en el cuadernillo adjunto, **seis** de los siguientes términos o conceptos geográficos, utilizando como máximo una cara del cuadernillo:

Dolina, Monocultivo, Latitud, Solsticio, Delta, Curvas de nivel, Vegetación esclerófila, PIB.

Puntuación máxima: 1,5 puntos.

2ª Parte

Tema: **"La diversidad física y humana de España".**

Desarrolle, de manera sintética, el tema propuesto (utilice, como máximo, ambas caras de un folio). Como indicativos se señalan los siguientes epígrafes:

* El territorio español: situación y extensión.
* Importancia de la situación geográfica.
* Diversidad física.
* Diversidad Humana.

Puntuación máxima: 4 puntos.

3ª Parte

Comentario de la fotografía adjunta:

Comente el paisaje de la lámina adjunta, atendiendo, al menos, a:

a) Unidades del paisaje. Haga especial hincapié en las transformaciones recientes del mismo.
b) Los usos del suelo.
c) Manifestaciones espaciales de las actividades económicas y del poblamiento.

Puntuación máxima: 2,5 puntos

4ª Parte

A la vista del mapa adjunto, ***"Unidades del relieve."***, señale las numeradas, explicando sus características generales.

Puntuación máxima: 2 puntos.

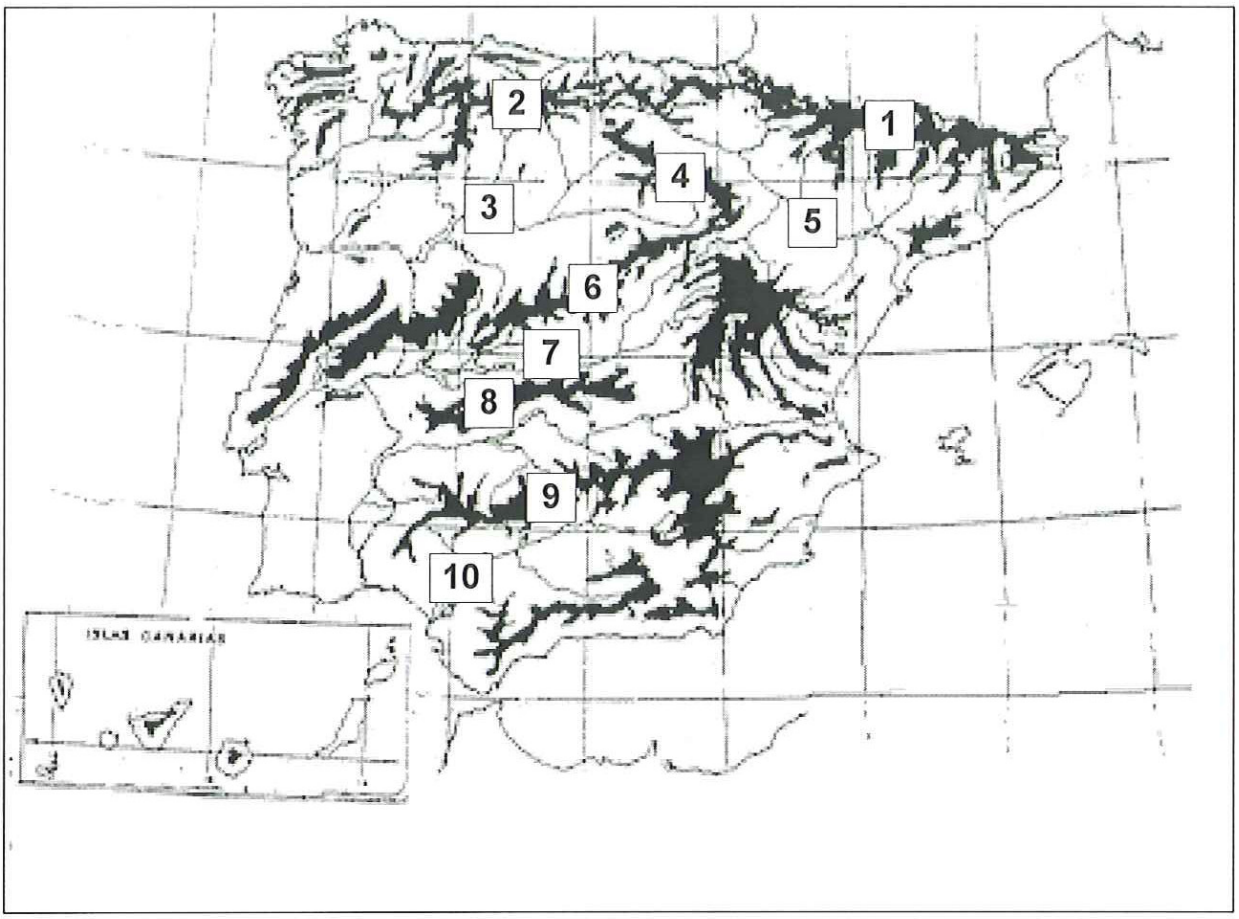

OPCIÓN B

1ª Parte

Defina, en el cuadernillo adjunto, **seis** de los siguientes términos o conceptos geográficos, utilizando como máximo una cara del cuadernillo:

Policultivo, Escala geográfica, Transición demográfica, CBD, Conurbación, Circo glaciar, Meandro, Landa.

Puntuación máxima: 1,5 puntos.

2ª Parte

Tema: ***"Las ciudades en España".***

Desarrolle, de manera sintética, el tema propuesto (utilice, como máximo, ambas caras de un folio). Como indicativos se señalan los siguientes epígrafes:

* Morfología de las ciudades españolas.
* La diversidad funcional y el proceso de urbanización.
* Caracterización socioeconómica.
* El impacto ambiental del medio urbano.

Puntuación máxima: 4 puntos.

3ª Parte

Comentario del gráfico: Realice un comentario de las pirámides adjuntas, atendiendo, al menos, a los siguientes aspectos:

- Interpretación individualizada de cada una de ellas.
- Cambios en la estructura de la población, por edad y sexo.
- Compare las dos pirámides.

Puntuación máxima: 2,5 puntos.

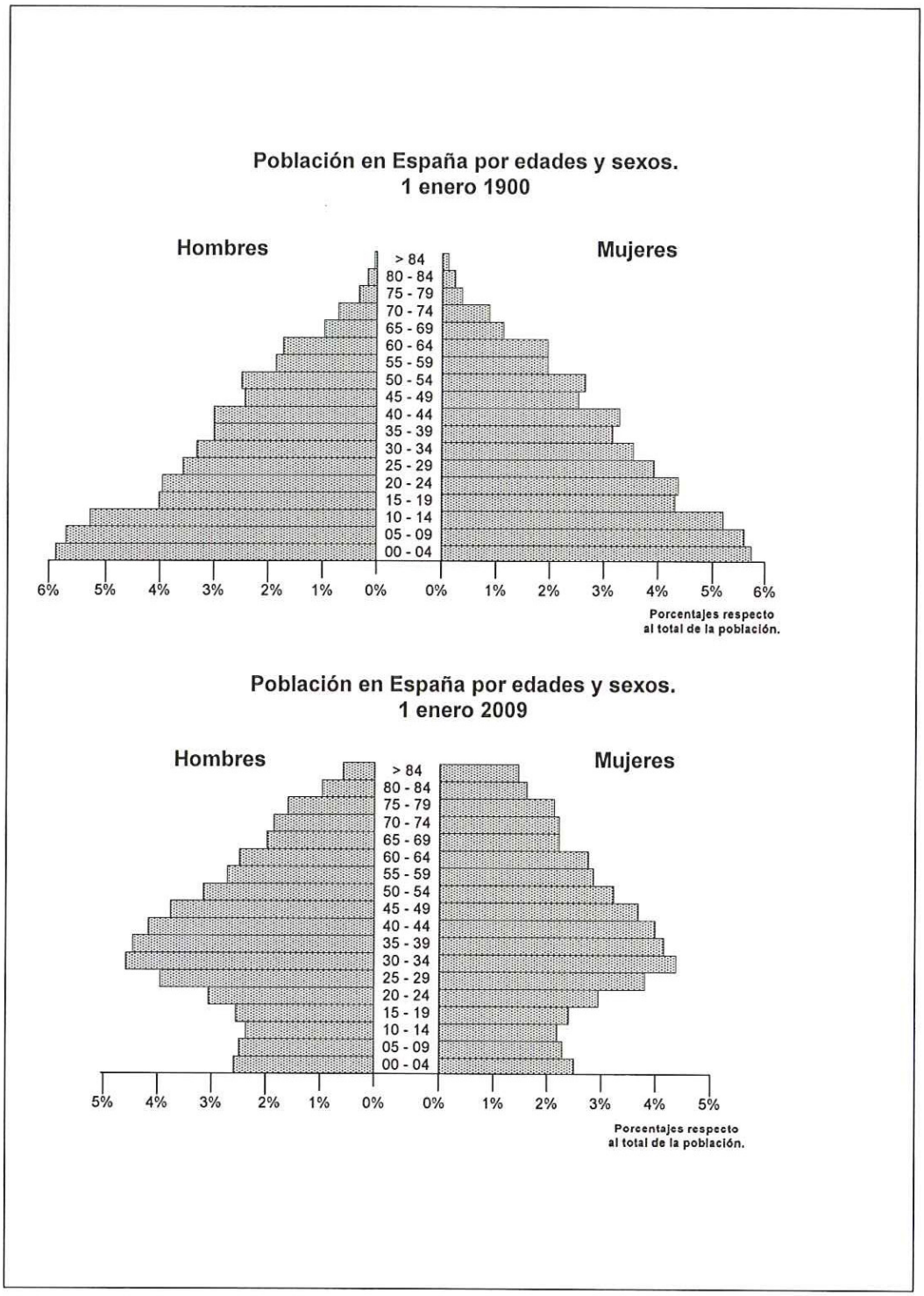

4ª Parte

A la vista del mapa adjunto, ***"Límite septentrional de la extensión del olivar en España",*** indique el nombre de las provincias "numeradas" pertenecientes a dicha categoría; señale las razones que explican esta distribución y comente algunas consecuencias emanadas de la significativa presencia de este cultivo en las provincia señaladas.

Puntuación máxima: 2 puntos.

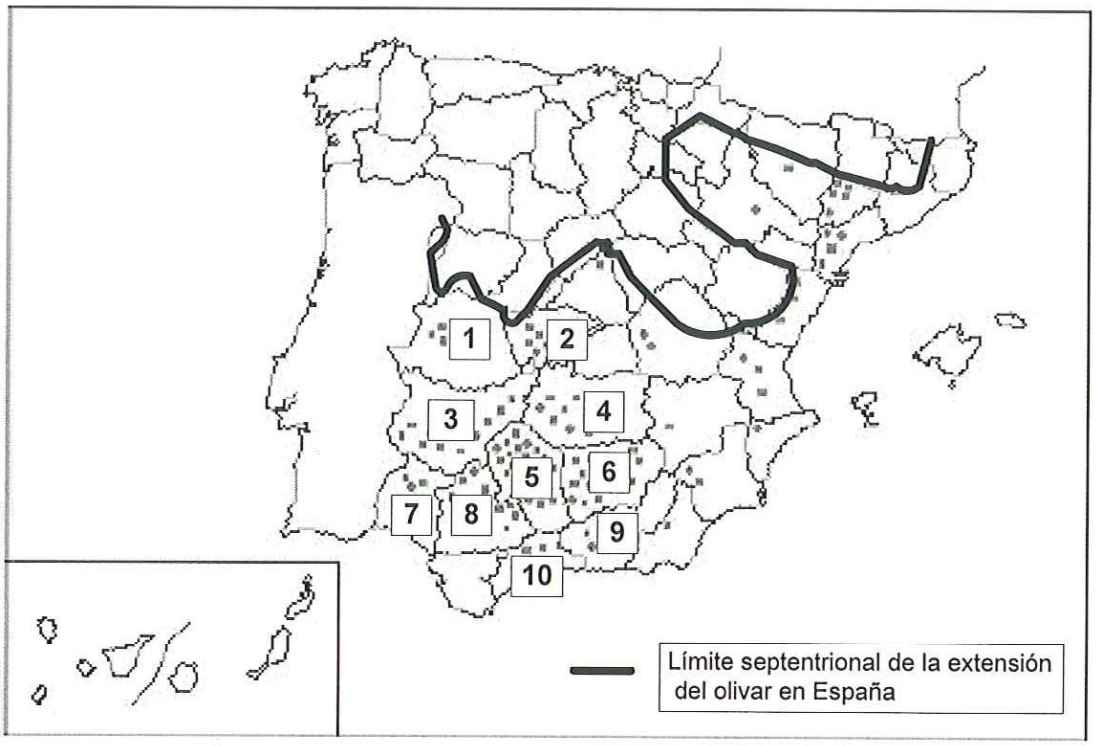


E-90
A-2
km
291